Централизованное тестирование по географии, 2015

При выполнении заданий с кратким ответом впишите в поле для ответа цифру, которая соответствует номеру правильного ответа, или число, слово, последовательность букв (слов) или цифр. Ответ следует записывать без пробелов и каких-либо дополнительных символов.

В заданиях, где нужно установить соответствие между двумя столбцами, ответ запишите в виде сочетания букв и цифр, соблюдая алфавитную последовательность букв левого столбца. Некоторые данные правого столбца могут использоваться несколько раз или не использоваться вообще. Например: А1Б1В4Г2.

Если вариант задан учителем, вы можете вписать или загрузить в систему ответы к заданиям с развернутым ответом. Учитель увидит результаты выполнения заданий с кратким ответом и сможет оценить загруженные ответы к заданиям с развернутым ответом. Выставленные учителем баллы отобразятся в вашей статистике.

1.
Географические координаты точки Г на карте:

1) 40° ю. ш., 160° з. д. 2) 40° ю. ш., 160° в. д.
3) 40° с. ш., 160° в. д. 4) 160° ю. ш., 40° в. д.

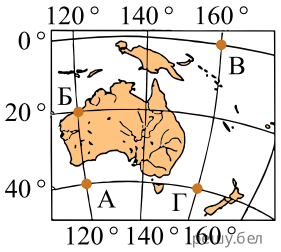

Карта составлена по состоянию на 01.01.2015

2. Указанному линейному масштабу соответствует численный масштаб:

1) 1 : 5000 2) 1 : 50 000 3) 1 : 500 000 4) 1 : 5 000 000

3. На рисунке изображен:

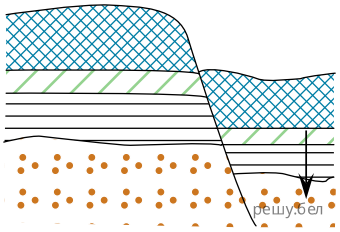

1) горст 2) грабен 3) сброс 4) щит

4. Определите ВЕРНОЕ утверждение:

1) при повышении температуры относительная влажность воздуха возрастает
2) летний муссон дует с суши на море
3) для циклона характерно пониженное атмосферное давление воздуха в центре
4) для экваториальных широт характерно повышенное атмосферное давление в течение года

5. Из предложенных пар, включающих реку и море (залив), в которое (который) она впадает, укажите составленную ОШИБОЧНО:

1) река Неман — Балтийское море 2) река Ганг — Бенгальский залив
3) река Дунай — Каспийское море 4) река Колорадо — Калифорнийский залив

6. Укажите эндемичное животное Евразии:

1)

2)



3)

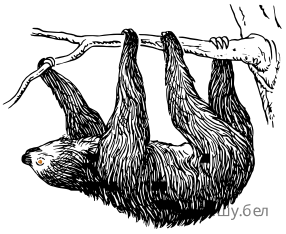

4)

1) 1 2) 2 3) 3 4) 4

7.

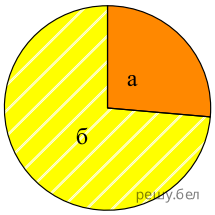

а) доля городского населения
б) доля сельского населения

На диаграмме отражена структура населения:

1) Китая 2) Польши 3) Армении 4) Таджикистана

8. Республиками по форме государственного правления являются:

1) Индия, Швеция 2) Испания, Канада 3) Дания, Нигерия 4) Китай, Бразилия

9. В состав Организации стран — экспортеров нефти (ОПЕК) входят государства:

1) Норвегия, Катар 2) Аргентина, Иран 3) Ангола, Ливия 4) Казахстан, Россия

10.

На карте цветом выделены три государства, которые в международном разделении труда являются ведущими по:

1) добыче нефти 2) поголовью овец и коз
3) протяженности железных дорог
4) тоннажу спускаемых на воду судов

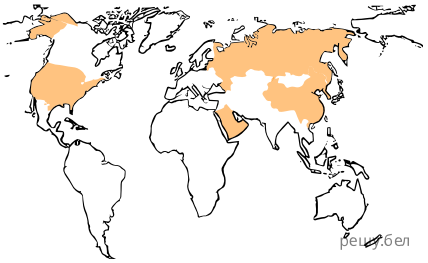

Карта составлена по состоянию на 01.01.2015

11. Укажите ВЕРНОЕ утверждение, характеризующее современную мировую промышленность:

1) на реке Янцзы построена одна из крупнейших в мире ГЭС
2) важнейшим показателем развития черной металлургии является объем добычи железной руды
3) Франция является мировым лидером по производству легковых автомобилей
4) в химической промышленности ведущее место принадлежит основной химии

12. Для мирового сельского хозяйства характерна(-о):

1) занятость большей части трудоспособного населения Австралии в сельском хозяйстве
2) наименьшая доля риса в структуре валового сбора зерновых культур
3) возделывание и экспорт хлопчатника в США
4) развитие скотоводства молочного и мясо-молочного направления преимущественно з областях тропического климатического пояса

13. Географию мирового транспорта характеризуют(-ет):

1) самые высокие показатели густоты железнодорожной сети в Латинской Америке
2) наибольшая протяженность внутренних водных путей в транспортной сети мира
3) мировое лидерство Германии по тоннажу торгового флота
4) осуществление основных авиаперевозок через Атлантический океан

14. Для территории Африки характерно:

1) расположение большей части материка в Южном полушарии
2) омывание водами Красного моря 3) наличие молодых гор на юге материка
4) отсутствие полноводных рек

15. В характеристике социально-экономического развития Африки ОШИБОЧНЫМ является утверждение:

1) большую часть населения Южной Африки составляют берберы
2) Марокко является государством с монархической формой правления
3) в ЮАР ведется добыча золота 4) монокультурой растениеводства Эфиопии является кофе

16. В Австралии:

1) отсутствует современное оледенение
2) на юго-западе материка осадки выпадают преимущественно летом
3) озеро Эйр-Норт является самым крупным пресным озером
4) на северном побережье широко распространены скрэбы

17. В характеристике социально экономического развития Австралийского Союза ОШИБОЧНЫМ является утверждение:

1) английский язык является государственным языком
2) в структуре ВВП наименьшая доля принадлежит сельскому хозяйству
3) на севере страны разведаны большие запасы урановой руды
4) страна занимает первое место в мире по поголовью свиней

18.

На карте в пределах акватории Атлантического океана расположена точка с цифрой:

1) 1 2) 2 3) 3 4) 4

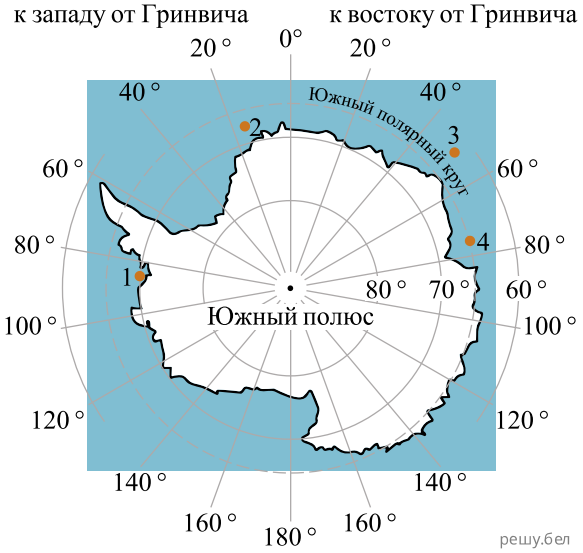

Карта составлена по состоянию на 01.01.2015

19. В пределах материка Южная Америка расположены:

1) вулкан Орисаба, река Ориноко 2) Амазонская низменность, озеро Виннипег
3) горы Анды, Гвианское плоскогорье 4) озеро Верхнее, река Укаяли

20. Для социально экономического развития Южной Америки характерен(-но):

1) низкий уровень урбанизации 2) наличие запасов медной руды в Чили
3) отсутствие в экспорте продукции сельского хозяйства
4) отсутствие национальных парков в Бразилии

21. В Северной Америке:

1) у берегов материка отсутствуют коралловые острова
2) высшая точка континента расположена в горах Аппалачах
3) тропический климатический пояс протягивается через самую широкую часть материка
4) на тихоокеанском побережье тайга представлена темнохвойными лесами

22. Для Канады характерна(-о):

1) унитарная форма административно-территориального устройства
2) проживание около 80 % населения в городах
3) производство основной части электроэнергии на ТЭС
4) ведущая роль растениеводства в сельском хозяйстве

23. ВЕРНЫМ в характеристике природы Евразии является утверждение:

1) Валдайская возвышенность расположена в пределах Восточно-Европейской платформы
2) в субэкваториальном климатическом поясе летом господствуют тропические воздушные массы
3) в областях с континентальным климатом отсутствуют соленые озера
4) большая часть Балканского полуострова расположена в природной зоне смешанных и широколиственных лесов

24. В пределах территории Европы расположены:

1) озеро Нарочь, горы Каракорум 2) горы Апеннины, Приволжская возвышенность
3) горы Саяны, Казахский мелкосопочник 4) горы Карпаты, Западно-Сибирская равнина

25. Для социально-экономического развития стран Европы характерно(-а):

1) преобладание католиков в странах Северной Европы
2) низкая доля трудоспособного населения в Польше
3) наличие крупных запасов минерального сырья в странах Южной Европы
4) специализация животноводства стран Балтии на разведении крупного рогатого скота и свиноводстве

26. Для социально-экономического развития Франции в отличие от Великобритании характерно(-а,-ен):

1) преобладание католиков среди верующих 2) вхождение в состав Европейского Союза (ЕС)
3) ведущая роль сферы услуг в структуре ВВП
4) высокий уровень использования интенсивных технологий в сельском хозяйстве

27. В характеристике государств Закавказья ВЕРНЫМ является утверждение:

1) в Азербайджане самый высокий в регионе уровень урбанизации
2) в Армении получила развитие атомная энергетика
3) сельское хозяйство региона имеет животноводческую специализацию
4) в регионе не получило развития кожевенно-обувное производство

28. В пределах территории России расположена(-о, -ен):

1) пустыня Каракумы 2) озеро Освейское 3) Усть-Илимское водохранилище
4) полуостров Малая Азия

29. В характеристике социально-экономического развития России ОШИБОЧНЫМ является утверждение:

1) наибольшая доля трудоспособного населения занята в сельском хозяйстве
2) количество иммигрантов превышает количество эмигрантов
3) основу машиностроения составляет производство транспортных средств
4) отмечается низкая средняя плотность автомобильных дорог

30. Ответ: Относительно географического положения Беларуси ВЕРНЫМ является утверждение:

1) с запада на восток территория государства простирается на 650 км
2) географический центр страны находится в Полоцком районе
3) наиболее протяженным является участок государственной границы с Польшей
4) через территорию страны не проходят трансконтинентальные железнодорожные магистрали

31.
Отмеченная на картосхеме цифрой 3 тектоническая структура — это:

1) Украинский щит 2) Припятский прогиб
3) Белорусская антеклиза
4) Жлобинская седловина

Карта составлена по состоянию на 01.01.2015

32. Для климата Беларуси характерно (-ен):

1) преобладание летом рассеянной солнечной радиации
2) отсутствие воздействия арктических воздушных масс
3) абсолютный минимум температуры воздуха, составляющий —30 °С
4) выпадение максимального годового количества осадков на Новогрудской возвышенности.

33. К бассейну Черного моря относится река:

1) Вилия 2) Свислочь 3) Западная Двина 4) Щара

34. На территории Беларуси встречается представитель фауны хвойных (таежных) лесов:

1) глухарь 2) жаворонок 3) перепел 4) соловей

35. В характеристике населения Беларуси ВЕРНЫМ является утверждение:

1) в возрастной структуре наибольшую долю составляет население пенсионного возраста
2) второй по численности населения национальностью в Беларуси являются русские
3) отсутствуют города, которые по своим функциям относятся к промышленным городам
4) наибольшая плотность населения отмечается в Витебской области

36. Для промышленности Беларуси характерен(-но):

1) сырьевой фактор размещения предприятий горнохимической промышленности
2) производство комплектующих деталей и узлов для машиностроения исключительно на территории страны
3) развитие производства фосфорных удобрений на местной сырьевой базе
4) отсутствие лесозаготовок в бассейне реки Припять

37. Для сельского хозяйства Беларуси характерна(-о):

1) наименьшая доля пашни в структуре сельскохозяйственных угодий
2) наименьшая доля площадей, занятых под яровой ячмень, среди зерновых культур
3) разведение крупного рогатого скота на всей территории страны
4) отсутствие крупных птицефабрик в некоторых областях

38. Для транспорта Беларуси характерна(-ен, -о):

1) наибольшая интенсивность движения грузовых и пассажирских поездов у Полесской магистрали

2) более густая сеть дорог с твердым покрытием в Гродненской области
3) самый большой грузооборот у Бобруйского речного порта
4) прохождение ветви нефтепровода «Дружба» через Мозырь

39.

Назовите залив Мирового океана, в пределах акватории которого на карте расположена точка.

В ответ запишите название залива. Например: Лионский.

Карта составлена по состоянию на 01.01.2015

40. Расположите последовательно с севера на юг следующие географические объекты:

1) озеро Маракайбо
2) горы Сихотэ-Алинъ
3) Синайский полуостров
4) пустыня Калахари

Ответ запишите цифрами, соблюдая полученную последовательность. Например: 2143.

41. Установите соответствие:

ОКЕАН

А) Тихий
Б) Атлантический
В) Индийский
Г) Северный Ледовитый

ХАРАКТЕРИСТИКА ОКЕАНА

1) в одном из заливов разрабатываются крупнейшие в мире месторождения нефти и газа
2) отличается наименьшей интенсивностью морских перевозок
3) сосредоточено более половины живого вещества Мирового океана
4) расположены Большие Антильские острова

Ответ запишите в виде сочетания букв и цифр, соблюдая алфавитную последовательность букв левого столбца. Например: А4Б3В2Г1.

42. По способу образования гнейс и сланец — ... горные породы.

Дополните предложение и запишите ответ словом.

43. Федеративное государство в северной части материка с высоким уровнем урбанизации и быстрыми темпами роста населения за счет естественного прироста. Выделяется огромными запасами нефти и является ее крупным экспортером. Столица данного государства —....

Запишите столицу государства. Например: Минск.

44. Установите соответствие.

ОСТРОВ	ГОСУДАРСТВО
А) Сулавеси	1) Индонезия
Б) Тайвань	2) Куба
В) Курильские	3) Россия
Г) Алеутские	4) США
	5) Китай

Ответ запишите в виде сочетания букв и цифр, соблюдая алфавитную последовательность букв левого столбца. Помните, что не все данные правого столбца могут быть при этом использованы. Например: А2Б1В4Г5.

45. Установите соответствие.

ХАРАКТЕРИСТИКА ГОСУДАРСТВА

А) государство с высоким естественным приростом населения, наибольшее по площади на континенте
Б) федеративное государство с самой высокой в мире обеспеченностью пашней на душу населения
В) государство, на территории которого расположена одна из крупнейших ГЭС мира — Гури
Г) федеративное государство, имеющее наибольшую протяженность железных дорог

ГОСУДАРСТВО

1) США
2) Россия
3) Венесуэла
4) Бразилия
5) Австралийский Союз

Ответ запишите в виде сочетания букв и цифр, соблюдая алфавитную последовательность букв левого столбца. Помните, что не все данные правого столбца могут быть при этом использованы. Например: А2Б1В4Г5.

46.

Назовите гряду, выделенную на карте цветом.

В ответ запишите название возвышенности. Например: Валдайская.

Карта составлена по состоянию на 01.01.2015

47. Установите соответствие.

ФИЗИКО-ГЕОГРАФИЧЕСКАЯ ПРОВИНЦИЯ	ГЕОГРАФИЧЕСКИЙ ОБЪЕКТ
А) Белорусская Поозерская	1) равнина Загородье
Б) Западно-Белорусская	2) Околовское месторождение железных руд
В) Полесская	3) Солигорское водохранилище
Г) Предполесская	4) Национальный парк Нарочанский

Ответ запишите в виде сочетания букв и цифр, соблюдая алфавитную последовательность букв левого столбца. Например: А2Б1В4Г3.

48. Установите соответствие между названием продукции и центром ее производства (Минск, Гомель, Береза, Шклов), отмеченным на карте цифрой.

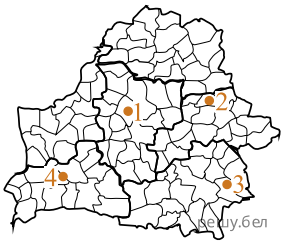

А) зерноуборочные комбайны
Б) газетная бумага
В) известь и гипс
Г) тракторы

Карта составлена по состоянию на 01.01.2015

Ответ запишите в виде сочетания букв и цифр, соблюдая алфавитную последовательность букв. Например: А2Б1В4Г3.

49. На плане местности определите относительную высоту точки, расположенной на границе зарослей кустарников и редкого леса, по отношению к отметке уреза воды в реке Яршевка.

Ответ запишите цифрами в виде целого числа, единицы измерения не указывайте. Например: 10.

50. Турист прошел от палаточного лагеря до ветряной мельницы 250 м по азимуту 270°. Далее такое же расстояние он прошел до родника по азимуту 180°. Определите азимут направления движения туриста от родника до палаточного лагеря.

Ответ запишите цифрами в виде целого числа, единицы измерения не указывайте. Например: 30.